آکادمی آنلاین تیزلاین

قوی‌ترین پلتفرم آموزشی تیزهوشان

- برگزار کننده کلاس های آنلاین و حضوری تیزهوشان و المپیاد از پایه چهارم تا دوازدهم
- آزمون های آنلاین و حضوری
- مشاوره تخصصی

با اسکن QR کد روبرو وارد صفحه اینستاگرام آکادمی تیزلاین شو و از محتواهای آموزشی رایگان لذت ببر

TIZLINE.IR

برای ورود به صفحه اصلی سایت آکادمی تیزلاین کلیک کنید

برای دانلود دفترچه آزمون های مختلف برای هر پایه کلیک کنید

برای مطالعه مقالات بروز آکادمی تیزلاین کلیک کنید

www.Tizline.ir ۰۲۱ ۴۴۱۳ ۶۹۷۵ ۰۹۳۳ ۳۸۴ ۰۲۰۲ ۵۰۰۰۲۶۹۱۳۲۴

آکادمی آموزشی تیزلاین

مجری همایش کلاس و آزمون در سراسر کشور

با حضور اساتید برگزیده ی کشوری تیزهوشان و کنکور

«به نام خالق زیبایی ها»

نام : ..... مدیریت آموزش وپرورش ناحیه شش مشهد مدت آزمون : ۱۰ دقیقه

نام خانوادگی : ..... آزمون هماهنگ درس ریاضی پایه ششم تاریخ : ۱۳۹۸/۳/۵

کلاس : ..... خرداد ماه سال تحصیلی ۹۸ - ۱۳۹۷ ساعت شروع : ۹ صبح

ردیف | توجه : انتخاب راه حل برای جواب دادن به سوالات دلخواه است. صفحه ۱ | ناظر معلم

۱- با توجه به الگوی شکلی مقابل به سوالات پاسخ دهید.

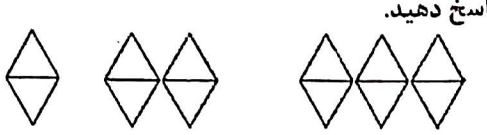

(۱) (۲) (۳)

الف) شکل چهارم از چند مثلث تشکیل شده است؟

ب) کدام شکل از ۲۸ مثلث درست می شود؟

۲- دور اعدادی که هم بر ۵ وهم بر ۹ بخش پذیرند خط بکشید.

۷۳۳ - ۴۰۵ - ۱۰۸ - ۶۸۵ - ۹۰۹۰

۳- اعداد زیر را از کمک به بزرگ از چپ به راست مرتب کنید.

$۳\frac{۱}{۵}$ و ۳- و ۱۷۲- و ۰ و ۸ و ۰

۴- حاصل عبارت زیر را به ساده ترین صورت بنویسید

$$\frac{۳-\frac{۲}{۳}}{\frac{۱}{۲}\times ۲\frac{۱}{۳}}=$$

۵- علی $\frac{۲}{۳}$ پولی را که پس انداز کرده بود. برای کمک به خانواده های سیل زده اهدا کرد و با نصف باقی مانده پولش یک کتاب علمی خرید. اگر برای او ۵۰۰۰ تومان مانده باشد، مشخص کنید کل پول علی چقدر بوده است؟

۶- اعداد را با هم مقایسه کنید وعلامت (<=>) بگذارید.

۱۲۰ ◯ ۰ ۱۶- ◯ ۶- ۲/۹ ◯ $۲\frac{۷}{۷}$

آکادمی تیزلاین، قویترین پلتفرم آموزشی تیزهوشان www.tizline.ir

mathmovie6 Tizline.ir
www.Tizline.ir @tizline ۰۹۳۳ ۳۸۴ ۰۲۰۲ ۵۰۰۰۲۶۹۱۳۲۴ ۰۲۱ ۴۴۱۳ ۶۹۷۵

آکادمی آموزشی تیزلاین

مجری همایش کلاس و آزمون در سراسر کشور

با حضور اساتید برگزیده ی کشوری تیزهوشان و کنکور

۷- حاصل تقسیم مقابل را تا دو رقم اعشار در خارج قسمت بدست آورده وباقیمانده را مشخص کنید.

۵/۱۸ | ۱/۲

۸- عدد یا کلمه مناسب را انتخاب و دور آن خط بکشید.

الف) کدام شکل مرکز تقارن دارد ؟ ۱) ذوزنقه ۲) متوازی الاضلاع ۳) مثلث

ب) مساحت منزلی ۷۵ ..... است. ۱)دسی متر مربع ۲) سانتی متر مربع ۳) متر مربع

ج) عدد $\frac{۴}{۵}$ برابر کدام عدد اعشاری است ؟ ۱) ۴/۵ ۲) ۰/۸ ۳) ۰/۴

۹- اتاق انباری به شکل مکعب مستطیل زیر است. حجم این انبار چند دسی متر مکعب است ؟

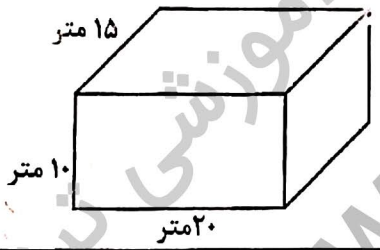

۱۰- عدد زیر را با تقریب کمتر از ۱۰۰ با دو روش مشخص شده بنویسید.

قطع کردن	گرد کردن	عدد
		۴۵۷۱/۶

۱۱- اندازه زاویه خواسته شده را در شکل مقابل بدست آورید.(با راه حل)

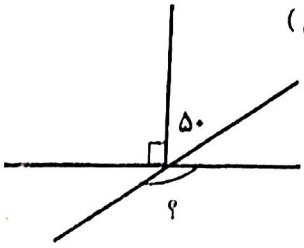

آکادمی تیزلاین، قویترین پلتفرم آموزشی تیزهوشان www.tizline.ir

mathmovie6 Tizline.ir
www.Tizline.ir @tizline ۰۹۳۳ ۳۸۴ ۰۲۰۲ ۵۰۰۰۲۶۹۱۳۲۴ ۰۲۱ ۴۴۱۳ ۶۹۷۵

آکادمی آموزشی تیزلاین

ردیف | نام ونام خانوادگی :..... | صفحه : ۳

۱۲- نسبت ۱۵ به ۴۰ مانند نسبت ..... به ۸ است.

۱۳- قیمت یک دست کت و شلوار ۹۰۰۰۰ تومان است .اگر به قیمت آن ۲ درصد مالیات اضافه شود ، برای خرید این کت وشلوار چند تومان باید پرداخت کرد؟

۱۴- حاصل را با رعایت ترتیب عملیات بدست آورید.

$۱۶ \div (۱+۷) + ۴ \times ۰/۵ =$

۱۵- مساحت قسمت رنگی را محاسبه کنید.

(قطر دایره کوچک ۲۰ سانتی متر است.)

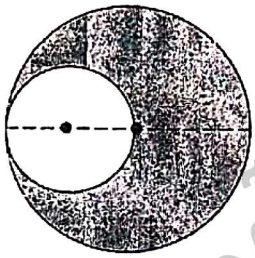

۱۶- الف) قرینه ی شکل را نسبت به محور تقارن مشخص شده رسم کنید.

ب) مختصات رأسهای قرینه را بنویسید.

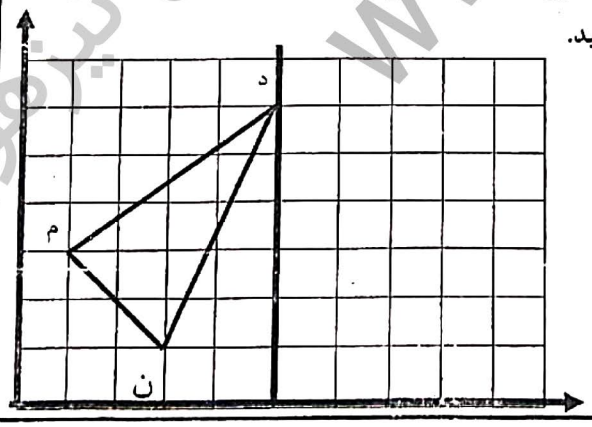

[ ] = قرینه ی م

[ ] = قرینه ی ن

[ ] = قرینه ی د

« فرزند عزیزم : موفق و پیروز باشید.»

با حضور اساتید برگزیده ی کشوری تیزهوشان و کنکور
مجری همایش کلاس و آزمون در سراسر کشور
آکادمی تیزلاین، قویترین پلتفرم آموزشی تیزهوشان www.tizline.ir
mathmovie6 Tizline.ir
www.Tizline.ir @tizline ۰۹۳۳ ۳۸۴ ۰۲۰۲ ۵۰۰۰۲۶۹۱۳۲۴ ۰۲۱ ۴۴۱۳ ۶۹۷۵

آکادمی آموزشی تیزلاین

مجری همایش کلاس و آزمون در سراسر کشور

با حضور اساتید برگزیده ی کشوری تیزهوشان و کنکور

«به نام خالق زیبایی ها»

نام : ..... مدیریت آموزش وپرورش ناحیه شش مشهد مدت آزمون : ۱۰ دقیقه

نام خانوادگی : ..... آزمون هماهنگ درس ریاضی پایه ششم تاریخ : ۱۳۹۸/۳/۵

کلاس : ..... خرداد ماه سال تحصیلی ۹۸ - ۱۳۹۷ ساعت شروع : ۹ صبح

ردیف | توجه : انتخاب راه حل برای جواب دادن به سوالات دلخواه است. | صفحه ۱ | نظر معلم

۱- با توجه به الگوی شکلی مقابل به سوالات پاسخ دهید.

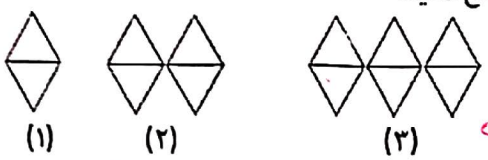

(۱) (۲) (۳)

شماره شکل	۱	۲	۳	۴
تعداد مثلث	۲	۴	۶	۸

الف) شکل چهارم از چند مثلث تشکیل شده است؟ ۸

ب) کدام شکل از ۲۸ مثلث درست می شود؟

(شماره شکل × ۲)

$۲ \times \square = ۲۸ \rightarrow \square = ۱۴$

۲- دور اعدادی که هم بر ۵ وهم بر ۹ بخش پذیرند خط بکشید.

۹۰۹۰ - ۶۸۵ - ۱۰۸ - ۴۰۵ - ۷۳۳

۳- اعداد زیر را از کمک به بزرگ از چپ به راست مرتب کنید.

-۳ و ۸ و ۰ و -۱۷۲ و -۳ و $۳\frac{۱}{۵}$ ---------- -۱۷۲ و -۳ و ۰ و ۳ و $۳\frac{۱}{۵}$ و ۸

۴- حاصل عبارت زیر را به ساده ترین صورت بنویسید.

$$\frac{۳-\frac{۲}{۳}}{\frac{۱}{۲}\times ۲\frac{۱}{۳}} = \frac{\frac{۹-۲}{۳}}{\frac{۱}{۲}\times\frac{۷}{۳}} = \frac{\frac{۷}{۳}}{\frac{۷}{۶}} = \frac{۴۲}{۲۱} = ۲$$

۵- علی $\frac{۲}{۳}$ پولی را که پس انداز کرده بود، برای کمک به خانواده های سیل زده اهدا کرد و با نصف باقی مانده پولش یک کتاب علمی خرید. اگر برای او ۵۰۰۰ تومان مانده باشد، مشخص کنید کل پول علی چقدر بوده است؟

کتاب	کمک به سیل	کمک به سیل
۵۰۰۰	زده	زده

باقی مانده	۱	۵۰۰۰
کل پول	۶	?

$\frac{۱}{۶}$ پول باقی مانده پس داریم

$? = ۶ \times ۵۰۰۰ = ۳۰۰۰۰$

۶- اعداد را با هم مقایسه کنید وعلامت (<=>) بگذارید.

-۱۲۰ (<) -۱۶ (>) -۶ $۲/۹$ (>) $۲\frac{۷}{۷}$

mathmovie6 Tizline.ir
www.Tizline.ir @tizline ۰۹۳۳ ۳۸۴ ۰۲۰۲ ۵۰۰۰۲۶۹۱۳۲۴ ۰۲۱ ۴۴۱۳ ۶۹۷۵

آکادمی آموزشی تیزلاین

مجری همایش کلاس و آزمون در سراسر کشور

با حضور اساتید برگزیده ی کشوری تیزهوشان و کنکور

ردیف | نام ونام خانوادگی : ..... | صفحه ۲

۷- حاصل تقسیم مقابل را تا دو رقم اعشار در خارج قسمت بدست آورده وباقیمانده را مشخص کنید.

۵/۱۸ | ۱/۲
۰/۰۰۸ | ۴/۳۱

×۱۰ →

۵۱/۸۰ | ۱۰۲
−۴۸ | ۴/۳۱
۳۸
−۳۶
۲۰
۱۲
۰/۰۸

÷۱۰ ← باقیمانده اصلی = ۰/۰۰۸

۸- عدد یا کلمه مناسب را انتخاب و دور آن خط بکشید.

الف) کدام شکل مرکز تقارن دارد ؟ ۱) ذوزنقه ۲) متوازی الاضلاع ۳) مثلث

ب) مساحت منزلی ۷۵ ..... است. ۱)دسی متر مربع ۲) سانتی متر مربع ۳) متر مربع

ج) عدد $\frac{۴}{۵}$ برابر کدام عدد اعشاری است ؟ ۱) ۴/۵ ۲) ۰/۸ ۳) ۰/۴

۹- اتاق انباری به شکل مکعب مستطیل زیر است. حجم این انبار چند دسی متر مکعب است ؟

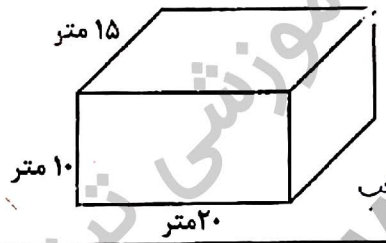

ارتفاع × عرض × طول = حجم

= ۱۵ × ۲۰ × ۱۰ = ۳۰۰۰ متر مکعب

متر مکعب ۱ | ۳۰۰۰
دسی متر مکعب ۱۰۰۰ | ?

→ ? = ۳۰۰۰۰۰۰ دسی متر مکعب

۱۰- عدد زیر را با تقریب کمتر از ۱۰۰ با دو روش مشخص شده بنویسید.

قطع کردن	گرد کردن	عدد
۴۵۰۰	۴۶۰۰	۴۵۷۱/۶

۱۱- اندازه زاویه خواسته شده را در شکل مقابل بدست آورید.(با راه حل)

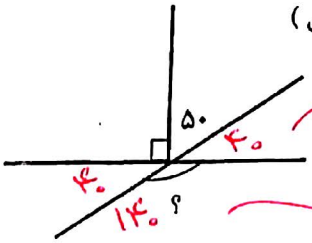

۹۰ − ۵۰ = ۴۰

۱۸۰ − ۴۰ = ۱۴۰

آکادمی تیزلاین، قویترین پلتفرم آموزشی تیزهوشان www.tizline.ir

mathmovie6 Tizline.ir
www.Tizline.ir @tizline ۰۹۳۳ ۳۸۴ ۰۲۰۲ ۵۰۰۰۲۶۹۱۳۲۴ ۰۲۱ ۴۴۱۳ ۶۹۷۵

آکادمی آموزشی تیزلاین
با حضور اساتید برگزیده ی کشوری تیزهوشان و کنکور
مجری همایش کلاس و آزمون در سراسر کشور

ردیف | نام ونام خانوادگی :..... | صفحه : ۳

۱۲- نسبت ۱۵ به ۴۰ مانند نسبت .....۳..... به ۸ است.

$\frac{۱۵}{۴۰} = \frac{۳}{۸}$

۱۳- قیمت یک دست کت و شلوار ۹۰۰۰۰ تومان است .اگر به قیمت آن ۲ درصد مالیات اضافه شود ، برای خرید این کت وشلوار چند تومان باید پرداخت کرد؟

۱۰۲ بعد از مالیات	۹۱۸۰۰
۲ مالیات	۱۸۰۰
۱۰۰ قبل از مالیات	۹۰۰۰۰

۹۱۸۰۰ تومان باید پرداخت کرد

۱۴- حاصل را با رعایت ترتیب عملیات بدست آورید.

$۱۶ \div (۱+۷) + ۴ \times ۰/۵ = ۱۶ \div ۸ + ۴ \times ۰/۵ = ۲ + ۲ = ۴$

۱۵- مساحت قسمت رنگی را محاسبه کنید.

(قطر دایره کوچک ۲۰ سانتی متر است.)

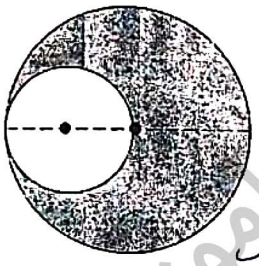

مساحت دایره = $\pi \times$ شعاع $\times$ شعاع

مساحت دایره کوچک = $۱۰ \times ۱۰ \times ۳/۱۴ = ۳۱۴$ سانتی متر مربع

مساحت دایره بزرگ = $۲۰ \times ۲۰ \times ۳/۱۴ = ۱۲۵۶$ سانتی متر مربع

مساحت قسمت رنگی = $۱۲۵۶ - ۳۱۴ = ۹۴۲$ سانتی متر مربع

۱۶- الف) قرینه ی شکل را نسبت به محور تقارن مشخص شده رسم کنید.

ب) مختصات رأسهای قرینه را بنویسید.

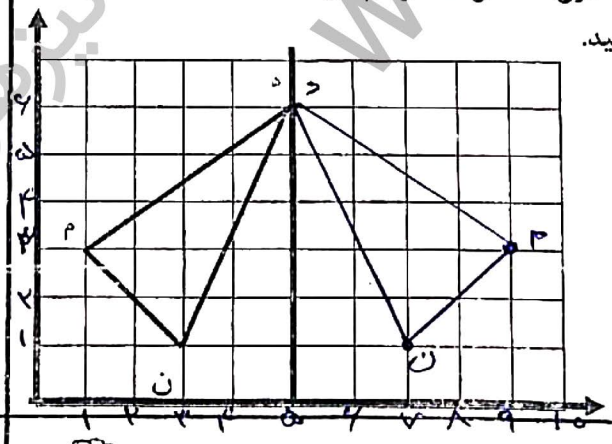

قرینه ی م = $\begin{bmatrix} ۹ \\ ۳ \end{bmatrix}$

قرینه ی ن = $\begin{bmatrix} ۷ \\ ۱ \end{bmatrix}$

قرینه ی د = $\begin{bmatrix} ۵ \\ ۶ \end{bmatrix}$

« فرزند عزیزم : موفق و پیروز باشید.»

mathmovie6 Tizline.ir
www.Tizline.ir @tizline ۰۹۳۳ ۳۸۴ ۰۲۰۲ ۵۰۰۰۲۶۹۱۳۲۴ ۰۲۱ ۴۴۱۳ ۶۹۷۵

آکادمی آموزشی تیزلاین

با حضور اساتید برگزیده ی کشوری تیزهوشان و کنکور

مجری همایش کلاس و آزمون در سراسر کشور

برنامه کلاس های دوره ابتدایی آکادمی تیزلاین

ششم

دکتر قربانی
ترم دو دوره سالانه
علوم تیزهوشان
از ۱ بهمن ، چهارشنبه ها
۱۸:۱۵ – ۱۹:۳۰
۱۲ جلسه
۳۵۰.۰۰۰

استاد مسعود بیگدلی
ترم دو دوره سالانه
هوش و خلاقیت
از ۲۹ دی ، دوشنبه ها
۲۰:۰۰ – ۲۱:۱۵
۱۲ جلسه
۳۵۰.۰۰۰

ششم

استاد مسعود بیگدلی
ترم دو دوره سالانه
ریاضی تیزهوشان
از ۲۹ دی ، دوشنبه ها
۱۶:۳۰ تا ۱۷:۴۵
۱۲ جلسه
۳۵۰.۰۰۰

پنجم

استاد وحید گوران
ترم دو دوره سالانه
ریاضی پیشرفت
از ۲۸ دی ، یک شنبه ها
۱۸:۱۵ – ۱۹:۳۰
۱۲ جلسه
۳۵۰.۰۰۰

ششم

استاد حسن ربانی
دوره سالانه
فارسی تیزهوشان
از ۱ آذر، شنبه ها
۲۰:۰۰ – ۲۱:۱۵
۱۵ جلسه
۴۵۰.۰۰۰

چهارم

استاد وحید گوران
ترم دو دوره سالانه
ریاضی پیشرفت
از ۲۸ دی ، یک شنبه ها
۱۶:۳۰ – ۱۷:۴۵
۱۲ جلسه
۳۵۰.۰۰۰

استاد پیمان لایق
ترم دو دوره سالانه
ساینس (علوم به لاتین)
از ۲۹ دی ، دو شنبه ها
۲۰:۰۰ – ۲۱:۱۵
۱۲ جلسه: ۳۵۰.۰۰۰
ظرفیت: ۱۵ نفر

استاد سعید موساوند
زبان انگلیسی، ترم زمستان
سه شنبه ها از ۳۰ دی
۲۰:۰۰ – ۲۱:۱۵
جمعه ها از ۳ بهمن
۱۶:۳۰ – ۱۷:۴۵
۲۰:۰۰ – ۲۱:۱۵
۱۰ جلسه: ۴۰۰.۰۰۰
ظرفیت هر گروه: ۱۰ نفر

تیزلاینی_شو

آزمون های آکادمی تیزلاین
شبیه سازترین آزمون تیزهوشان

- چهارم: ۵ + ۱ مرحله
- پنجم: ۸ + ۱ مرحله
- ششم: ۱۰ + ۱ مرحله
- هفتم: ۶ + ۱ مرحله
- هشتم: ۶ + ۱ مرحله
- نهم: ۱۰ + ۱ مرحله
- دهم: ۷ + ۱ مرحله

چهارم تا دهم

با طراحی اساتید برجسته تیزهوشان کشور
استاد مسعود بیگدلی، استاد فرزاد تندرو، استاد میثم بهرامی
دکتر میثم کوهگرد، استاد مهدی مهدی زاده، دکتر قربانی و...

آنلاین و حضوری در نمایندگی ها

ثبت نام در سایت رسمی آکادمی تیزلاین
www.Tizline.ir ۰۲۱ ۴۴۱۳ ۶۹۷۵ ۰۹۳۳ ۳۸۴ ۰۲۰۲

آکادمی آموزشی تیزلاین

برنامه کلاس های آکادمی تیزلاین : پایه هفتم

استاد مسعود بیگدلی
ترم دو دوره سالانه
ریاضی تیزهوشان هفتم
از ۲۹ دی، دوشنبه ها
۱۸:۱۵ – ۱۹:۳۰
۱۲ جلسه
۳۵۰.۰۰۰

استاد مسعود بیگدلی
ترم دو دوره سالانه
هوش و استعداد تحلیلی
از ۲ بهمن، پنج شنبه ها
۲۰:۰۰ – ۲۱:۱۵
۱۲ جلسه
۳۵۰.۰۰۰

دکتر قربانی
ترم دو دوره سالانه
علوم تیزهوشان هفتم
از ۱ بهمن، چهارشنبه ها
۲۰:۰۰ – ۲۱:۱۵
۱۲ جلسه
۳۵۰.۰۰۰

استاد مجید غلامی
دوره سالانه
از ۲۹ دی، دوشنبه ها
۲۰:۰۰ – ۲۱:۱۵
۱۰ جلسه
۳۰۰.۰۰۰

استاد پیمان لایق
از ۲۹ دی
ساینس (علوم به لاتین)
دوشنبه ها
۲۰:۰۰ – ۲۱:۱۵
۱۲ جلسه
۳۵۰.۰۰۰

استاد سعید موسی وند
زبان انگلیسی
جمعه ها از ۳ بهمن
۱۶:۳۰ – ۱۷:۴۵
۲۰:۰۰ – ۲۱:۱۵
سه شنبه ها از ۳۰ دی
۲۰:۰۰ – ۲۱:۱۵
۱۰ جلسه
۴۰۰.۰۰۰

دکتر کاظم غریبی
دوره سالانه
فارسی تیزهوشان هفتم
از ۱ آذر ، شنبه ها
۲۰:۰۰ – ۲۱:۱۵
۱۵ جلسه
۴۵۰.۰۰۰

استاد بهزاد اسداله
استاد حسین حسین زاده
المپیاد ریاضی
از ۲ آذر ، یک شنبه ها
۲۰:۰۰ – ۲۱:۱۵
۱۵ جلسه
۴۵۰.۰۰۰

دکتر میثم کوهگرد
المپیاد فیزیک
از ۶ آذر
پنج شنبه ها
۲۰:۰۰ – ۲۱:۱۵
۱۵ جلسه
۴۵۰.۰۰۰

دکتر قربانی
المپیاد زیست شناسی
از ۴ آذر
سه شنبه ها
۱۸:۱۵ – ۱۹:۳۰
۱۵ جلسه
۴۵۰.۰۰۰

ثبت نام در سایت رسمی آکادمی تیزلاین
www.Tizline.ir

تیزلاینی_شو

دوره سالانه شامل دو ترم ۱۲ جلسه ای با ویدیو قابل دانلود و جزوه قابل پرینت است .

دوره زبان فارسی تیزهوشان به صورت سالانه ۱۵ جلسه است .

آنلاین

۰۲۱ ۴۴۱۳ ۶۹۷۵ ۰۹۳۳ ۳۸۴ ۰۲۰۲ ۵۰۰۰۲۶۹۱۳۲۴

با حضور اساتید برگزیده ی کشوری تیزهوشان و کنکور

مجری همایش کلاس و آزمون در سراسر کشور

mathmovie6 Tizline.ir

آکادمی آموزشی تیزلاین

با حضور اساتید برگزیده ی کشوری تیزهوشان و کنکور

مجری همایش کلاس و آزمون در سراسر کشور

برنامه کلاس های آکادمی تیزلاین : پایه هشتم

استاد میثم بهرامی جویا
ترم دو دوره سالانه
ریاضی تیزهوشان هشتم
از ۱ بهمن، چهارشنبه ها
۲۰:۰۰ – ۲۱:۱۵
۱۲ جلسه
۳۵۰.۰۰۰

استاد مسعود بیگدلی
ترم دو دوره سالانه
هوش و استعداد تحلیلی
از ۲ بهمن، پنجشنبه ها
۲۰:۰۰ – ۲۱:۱۵
۱۲ جلسه
۳۵۰.۰۰۰

دکتر قربانی
ترم دو دوره سالانه
علوم تیزهوشان هشتم
از ۲۸ دی، یک شنبه ها
۱۸:۱۵ – ۱۹:۳۰
۱۲ جلسه
۳۵۰.۰۰۰

استاد مهدی مهدی زاده
دوره سالانه
فارسی تیزهوشان هشتم
از ۱ آذر ، شنبه ها
۱۸:۱۵ – ۱۹:۳۰
۱۵ جلسه
۴۵۰.۰۰۰

استاد پیمان لایق
از ۲۹ دی
ساینس (علوم به لاتین)
دو شنبه ها
۲۰:۰۰ – ۲۱:۱۵
۱۲ جلسه
۳۵۰.۰۰۰

استاد سعید موساوند
زبان انگلیسی
سه شنبه ها از ۳۰ دی
۲۰:۰۰ – ۲۱:۱۵
جمعه ها از ۳ بهمن
۱۶:۳۰ – ۱۷:۴۵
۲۰:۰۰ – ۲۱:۱۵
۱۰ جلسه
۴۰۰.۰۰۰

استاد بهزاد اسداله
استاد حسین حسین زاده
المپیاد ریاضی
از ۲ آذر، یک شنبه ها
۲۰:۰۰ – ۲۱:۱۵
۱۵ جلسه
۴۵۰.۰۰۰

دکتر میثم کوهگرد
المپیاد فیزیک
از ۶ آذر
پنج شنبه ها
۲۰:۰۰ – ۲۱:۱۵
۱۵ جلسه
۴۵۰.۰۰۰

دکتر قربانی
المپیاد زیست شناسی
از ۴ آذر
سه شنبه ها
۱۸:۱۵ – ۱۹:۳۰
۱۵ جلسه
۴۵۰.۰۰۰

ثبت نام در سایت رسمی آکادمی تیزلاین
www.Tizline.ir
#تیزلاینی_شو

دوره سالانه شامل دو ترم ۱۲ جلسه ای با ویدیو قابل دانلود و جزوه قابل پرینت است .
دوره زبان فارسی تیزهوشان به صورت سالانه ۱۵ جلسه است .

آنلاین

۵۰۰۰۲۶۹۱۳۲۴ ۰۹۳۳ ۳۸۴ ۰۲۰۲ ۰۲۱ ۴۴۱۳ ۶۹۷۵

mathmovie6 Tizline.ir

آکادمی آموزشی تیزلاین

با حضور اساتید برگزیده ی کشوری تیزهوشان و کنکور

مجری همایش کلاس و آزمون در سراسر کشور

برنامه کلاس های آکادمی تیزلاین : پایه نهم

استاد فرزاد تندرو
ترم دو دوره سالانه
ریاضی تیزهوشان نهم
از ۱ بهمن، چهارشنبه ها
۲۰:۰۰ – ۲۱:۱۵
۱۲ جلسه
۳۵۰.۰۰۰

استادمسعودبیگدلی
ترم دو دوره سالانه
هوش و استعداد تحلیلی
از ۲ بهمن، پنجشنبه ها
۲۰:۰۰ – ۲۱:۱۵
۱۲ جلسه
۳۵۰.۰۰۰

دکتـــر قربانی
ترم دو دوره سالانه
علوم تیزهوشان نهم
از ۲۸ دی، یک شنبه ها
۲۰:۰۰ – ۲۱:۱۵
۱۲ جلسه
۳۵۰.۰۰۰

استاد مجید غلامی
دوره سالانه
از ۲۹ دی، دوشنبه ها
۲۰:۰۰ – ۲۱:۱۵
۱۰ جلسه
۳۰۰.۰۰۰

استاد پیمان لایق
از ۲۹ دی
ساینس (علوم به لاتین)
دوشنبه ها
۲۰:۰۰ – ۲۱:۱۵
۱۲ جلسه
۳۵۰.۰۰۰

استاد سعید موساوند
زبان انگلیسی
جمعه ها از ۳ بهمن
۱۶:۳۰ – ۱۷:۴۵
سه شنبه ها از ۳۰ دی
۲۰:۰۰ – ۲۱:۱۵
۱۰ جلسه
۴۰۰.۰۰۰

استاد مهدی مهدی زاده
دوره سالانه
فارسی تیزهوشان نهم
از ۱ آذر ، شنبه ها
۲۰:۰۰ – ۲۱:۱۵
۱۵ جلسه
۴۵۰.۰۰۰

استاد بهزاد اسداله
استاد حسین حسین زاده
المپیاد ریاضی
از ۲ آذر، یک شنبه ها
۲۰:۰۰ – ۲۱:۱۵
۱۵ جلسه
۴۵۰.۰۰۰

دکتر میثم کوهگرد
المپیاد فیزیک
از ۶ آذر
پنج شنبه ها
۲۰:۰۰ – ۲۱:۱۵
۱۵ جلسه
۴۵۰.۰۰۰

دکتـــر قربانی
المپیاد زیست شناسی
از ۴ آذر
سه شنبه ها
۱۸:۱۵ – ۱۹:۳۰
۱۵ جلسه
۴۵۰.۰۰۰

ثبت نام در سایت رسمی آکادمی تیزلاین
www.Tizline.ir
#تیزلاینی_شو

دوره سالانه شامل دو ترم ۱۲ جلسه ای با ویدیو قابل دانلود و جزوه قابل پرینت است .
دوره زبان فارسی تیزهوشان به صورت سالانه ۱۵ جلسه است .

آنلاین

۰۲۱ ۴۴۱۳ ۶۹۷۵ ۰۹۳۳ ۳۸۴ ۰۲۰۲ ۵۰۰۰۲۶۹۱۳۲۴

mathmovie6 Tizline.ir

آکادمی آموزشی تیزلاین

مجری همایش کلاس و آزمون در سراسر کشور

با حضور اساتید برگزیده ی کشوری تیزهوشان و کنکور

برنامه کلاس های آکادمی تیزلاین:

پایه دهم

دکتر قربانی
ترم دو دوره سالانه
شیمی پیشرفته دهم
از ۲۷ دی، شنبه ها
۲۰:۰۰ – ۲۱:۱۵
۱۲ جلسه
۳۵۰.۰۰۰

دکتر میثم کوهگرد
ترم دو دوره سالانه
فیزیک پیشرفته دهم
از ۲۹ دی ، دوشنبه ها
۲۰:۰۰ – ۲۱:۱۵
۱۲ جلسه
۳۵۰.۰۰۰

#تیزلاینی_شو

دکتر قربانی
ترم دو دوره سالانه
زیست شناسی پیشرفته دهم
از ۳۰ دی، سه شنبه ها
۲۰:۰۰ – ۲۱:۱۵
۱۲ جلسه
۳۵۰.۰۰۰

استاد فرزاد تندرو
ترم دو دوره سالانه
ریاضی پیشرفته دهم
از ۱ بهمن، چهار شنبه ها
۱۸:۱۵ – ۱۹:۳۰
۱۲ جلسه
۳۵۰.۰۰۰

ثبت نام در سایت رسمی آکادمی تیزلاین

www.Tizline.ir

دوره سالانه شامل دو ترم ۱۲ جلسه ای با ویدیو قابل دانلود و جزوه قابل پرینت است .

۰۲۱ ۴۴۱۳ ۶۹۷۵ ۰۹۳۳ ۳۸۴ ۰۲۰۲ ۵۰۰۰۲۶۹۱۳۲۴

mathmovie6 Tizline.ir