آکادمی آنلاین تیزلاین

قوی‌ترین پلتفرم آموزشی تیزهوشان

- برگزار کننده کلاس های آنلاین و حضوری تیزهوشان و المپیاد از پایه چهارم تا دوازدهم
- آزمون های آنلاین و حضوری
- مشاوره تخصصی

با اسکن QR کد روبرو وارد صفحه اینستاگرام آکادمی تیزلاین شو و از محتواهای آموزشی رایگان لذت ببر

TIZLINE.IR

برای ورود به صفحه اصلی سایت آکادمی تیزلاین کلیک کنید

برای دانلود دفترچه آزمون های مختلف برای هر پایه کلیک کنید

برای مطالعه مقالات بروز آکادمی تیزلاین کلیک کنید

www.Tizline.ir ۰۲۱ ۴۴۱۳ ۶۹۷۵ ۰۹۳۳ ۳۸۴ ۰۲۰۲ ۵۰۰۰۲۶۹۱۳۲۴

آکادمی آموزشی تیزلاین

مجری همایش کلاس و آزمون در سراسر کشور

با حضور اساتید برگزیده ی کشوری تیزهوشان و کنکور

نام ونام خانوادگی:.....	بسمه تعالی	تاریخ آزمون :۹۷/۳/۵
سوالات امتحانی درس: ریاضی	اداره ی آموزش وپرورش استان آذربایجان شرقی	مدت آزمون:۷۵دقیقه
پایه ی :ششم	شهرستان تبریز(سال تحصیلی ۹۷-۹۶)	شماره ی صندلی:.....
نام معلّم:.....	تعداد صفحه: ۳ تعداد سوال: ۱۳	ساعت آزمون: ۱۰صبح
		شیفت:صبح

ردیف	سوالات	صفحه ی اوّل
۱	پاسخ درست رامشخّص کنید.	
	الف) درالگوی داده شده، عددسیزدهم کدام است؟	۱،۳،۵،۷و.....
	الف) ۱۳ ب) ۲۶ ج) ۲۵ د) ۳۹	
	ب) ساده شده ی کسر $\frac{۲۴\times۳۶}{۴۸\times۹}$ کدام گزینه می باشد؟	
	الف) $\frac{۲}{۳}$ ب) $\frac{۴}{۵}$ ج) ۲ د) ۱	
	ج)واحد استاندارد سطح چه نام دارد؟	
	الف) میلی مترمربع ب) مترمربع ج)سانتی متر د)کیلومتر	
	د) کدام یک ازعددهای زیرازنصف بیشتراست؟	
	الف) ۰/۰۹۳ ب)۰/۴۶۵ ج)۰/۵۵ د)۰/۰۴	
۲	جاهای خالی رابااعدادیاکلمات مناسب پرکنید.	
	الف)اعدادی بر۵بخشپذیرهستند،که رقم یکان آن ها .....یا..... باشد.	
	ب)درمقایسه ی کسرها،هرگاه صورت کسرهابرابر باشند،کسری بزرگتراست که	
	ج)هرگاه حاصل ضرب دوعددبرابریک باشد،آن دو عددرا ..... می گویند.	
	د)یک مکعب مستطیل ..... وجه دارد.	
۳	صحیح یاغلط بودن عبارت های زیررامشخّص کنید.	
	الف)بین دوکسر $\frac{۱}{۲}$ و $\frac{۱}{۳}$ فقط یک کسروجوددارد.	ص غ
	ب) فاصله ی بین دونقطه طول پاره خطی است که آن دونقطه رابه هم وصل می کند.	ص غ
	ج)ذوزنقه ی متساوی الساقین یک خط تقارن دارد.	ص غ
	د) احتمال زوج آمدن درپرتاب تاس $\frac{۱}{۳}$ است.	ص غ

آکادمی تیزلاین، قویترین پلتفرم آموزشی تیزهوشان www.tizline.ir

mathmovie6 Tizline.ir
www.Tizline.ir @tizline ۰۹۳۳ ۳۸۴ ۰۲۰۲ ۵۰۰۰۲۶۹۱۳۲۴ ۰۲۱ ۴۴۱۳ ۶۹۷۵

مجری همایش کلاس و آزمون در سراسر کشور

با حضور اساتید برگزیده ی کشوری تیزهوشان و کنکور

صفحه ی دوم

۴ مقایسه کنید.

$\frac{۳}{۴}$ ○ ۰/۸۵ ۴/۰۸ ○ ۴/۰۸۳

مکمل زاویه ی ۱۳۰درجه ○ متمم زاویه ی ۴۰درجه ۹- ○ ۳-

۵ اندازه ی زاویه های خواسته شده رابه دست آورید.

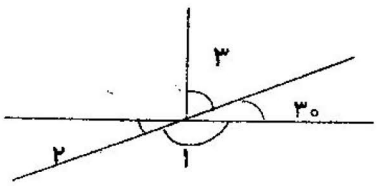

.....=زاویه ی ۱

.....=زاویه ی ۲

.....= زاویه ی ۳

۶ پاسخ عبارات زیررابه دست آورید.

$۲\frac{۳}{۴}+\frac{۵}{۶}=$

$۶-۲\frac{۳}{۵}=$

$۲\frac{۲}{۵}\times\frac{۱۵}{۲۴}=$

$\frac{۱۲}{۱۴}\div\frac{۶}{۸}=$

۷ مریم لباسی رابا ٪ ۳۰تخفیف خریده است.اگرقیمت اولیه ی لباس ۳۶۰۰۰ تومان باشد.

الف) مریم این لباس راباچندتومان تخفیف خریده است؟

ب) اوبرای خرید این لباس چندتومان پرداخته است؟

۸ هریک ازنقاط داده شده راروی محورمختصات مشخص کنید،نقاط حاصل رابه هم وصل کنید.



الف) نام شکل حاصل چیست؟

ب) مساحت شکل حاصل رابه دست آورید.

$\begin{bmatrix}۴\\۳\end{bmatrix}$ $\begin{bmatrix}۱\\۳\end{bmatrix}$ $\begin{bmatrix}۵\\۵\end{bmatrix}$ $\begin{bmatrix}۲\\۵\end{bmatrix}$

www.tizline.ir

آکادمی آموزشی تیزلاین

مجری همایش کلاس و آزمون در سراسر کشور

با حضور اساتید برگزیده ی کشوری تیزهوشان و کنکور

صفحه ی سوم

۹ باهرروشی که دوست دارید مجموع زوایای داخلی شکل هندسی داده شده رامحاسبه کنید وبنویسید.

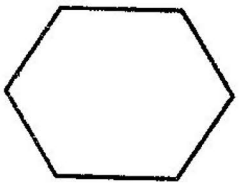

۱۰ مقدار تقریبی اعداد داخل جدول رابه دست آورید.

گردکردن	قطع کردن	باتقریب کم تراز	عدد
		۰/۱	۱۲/۳۴۵
		۱۰	۴۶۷۸

۱۱ تقسیم زیرراتادورقم اعشاردرخارج قسمت ادامه دهید.(خارج قسمت وباقیمانده رامشخّص کنید.)

۳/۵۶ | ۰/۳

۱۲ حجم مکعب داده شده چند مترمکعب است؟

حجم این مکعب چنددسی مترمکعب است؟

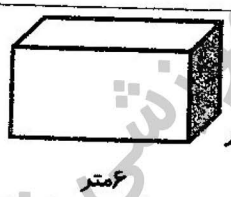

۱۳ جواب، عبارت زیررابارعایت ترتیب اولویت هابه دست آورید.

۱۲÷۴+۳×۵=

موفق وپیروزوسربلندباشید،عزیزانم

بازخورد معلّم:.....

.....

.....

آکادمی تیزلاین، وبینار و پلتفرم آموزشی تیزهوشان
www.tizline.ir

آکادمی آموزشی تیزلاین

با حضور اساتید برگزیده ی کشوری تیزهوشان و کنکور

مجری همایش کلاس و آزمون در سراسر کشور

برنامه کلاس های دوره ابتدایی آکادمی تیزلاین

ششم

دکتر قربانی
ترم دو دوره سالانه
علوم تیزهوشان
از ۱ بهمن ، چهارشنبه ها
۱۸:۱۵ – ۱۹:۳۰
۱۲ جلسه
۳۵۰.۰۰۰

استاد مسعود بیگدلی
ترم دو دوره سالانه
هوش و خلاقیت
از ۲۹ دی ، دوشنبه ها
۲۰:۰۰ – ۲۱:۱۵
۱۲ جلسه
۳۵۰.۰۰۰

ششم

استاد مسعود بیگدلی
ترم دو دوره سالانه
ریاضی تیزهوشان
از ۲۹ دی ، دوشنبه ها
۱۶:۳۰ تا ۱۷:۴۵
۱۲ جلسه
۳۵۰.۰۰۰

پنجم

استاد وحید گوران
ترم دو دوره سالانه
ریاضی پیشرفت
از ۲۸ دی ، یک شنبه ها
۱۸:۱۵ – ۱۹:۳۰
۱۲ جلسه
۳۵۰.۰۰۰

ششم

استاد حسن ربانی
دوره سالانه
فارسی تیزهوشان
از ۱ آذر، شنبه ها
۲۰:۰۰ – ۲۱:۱۵
۱۵ جلسه
۴۵۰.۰۰۰

چهارم

استاد وحید گوران
ترم دو دوره سالانه
ریاضی پیشرفت
از ۲۸ دی ، یک شنبه ها
۱۶:۳۰ – ۱۷:۴۵
۱۲ جلسه
۳۵۰.۰۰۰

استاد پیمان لایق
ترم دو دوره سالانه
ساینس (علوم به لاتین)
از ۲۹ دی ، دو شنبه ها
۲۰:۰۰ – ۲۱:۱۵
۱۲ جلسه: ۳۵۰.۰۰۰
ظرفیت: ۱۵ نفر

استاد سعید موساوند
زبان انگلیسی، ترم زمستان
سه شنبه ها از ۳۰ دی
۲۰:۰۰ – ۲۱:۱۵
جمعه ها از ۳ بهمن
۱۶:۳۰ – ۱۷:۴۵
۲۰:۰۰ – ۲۱:۱۵
۱۰ جلسه: ۴۰۰.۰۰۰
ظرفیت هر گروه: ۱۰ نفر

تیزلاینی_شو

آزمون های آکادمی تیزلاین
شبیه سازترین آزمون تیزهوشان

- چهارم: ۵ + ۱ مرحله
- پنجم: ۸ + ۱ مرحله
- ششم: ۱۰ + ۱ مرحله
- هفتم: ۶ + ۱ مرحله
- هشتم: ۶ + ۱ مرحله
- نهم: ۱۰ + ۱ مرحله
- دهم: ۷ + ۱ مرحله

چهارم تا دهم

با طراحی اساتید برجسته تیزهوشان کشور
استاد مسعود بیگدلی، استاد فرزاد تندرو، استاد میثم بهرامی
دکتر میثم کوهگرد، استاد مهدی مهدی زاده، دکتر قربانی و...

آنلاین و حضوری در نمایندگی ها

ثبت نام در سایت رسمی آکادمی تیزلاین
www.Tizline.ir ۰۲۱ ۴۴۱۳ ۶۹۷۵ ۰۹۳۳ ۳۸۴ ۰۲۰۲

آکادمی آموزشی تیزلاین

برنامه کلاس های آکادمی تیزلاین : پایه هفتم

استاد مسعود بیگدلی
ترم دو دوره سالانه
ریاضی تیزهوشان هفتم
از ۲۹ دی، دوشنبه ها
۱۸:۱۵ – ۱۹:۳۰
۱۲ جلسه
۳۵۰.۰۰۰

استاد مسعود بیگدلی
ترم دو دوره سالانه
هوش و استعداد تحلیلی
از ۲ بهمن، پنج شنبه ها
۲۰:۰۰ – ۲۱:۱۵
۱۲ جلسه
۳۵۰.۰۰۰

دکتر قربانی
ترم دو دوره سالانه
علوم تیزهوشان هفتم
از ۱ بهمن، چهارشنبه ها
۲۰:۰۰ – ۲۱:۱۵
۱۲ جلسه
۳۵۰.۰۰۰

استاد مجید غلامی
دوره سالانه
از ۲۹ دی، دوشنبه ها
۲۰:۰۰ – ۲۱:۱۵
۱۰ جلسه
۳۰۰.۰۰۰

استاد پیمان لایق
از ۲۹ دی
ساینس (علوم به لاتین)
دوشنبه ها
۲۰:۰۰ – ۲۱:۱۵
۱۲ جلسه
۳۵۰.۰۰۰

استاد سعید موسی وند
زبان انگلیسی
جمعه ها از ۳ بهمن
۱۶:۳۰ – ۱۷:۴۵
۲۰:۰۰ – ۲۱:۱۵
سه شنبه ها از ۳۰ دی
۲۰:۰۰ – ۲۱:۱۵
۱۰ جلسه
۴۰۰.۰۰۰

دکتر کاظم غریبی
دوره سالانه
فارسی تیزهوشان هفتم
از ۱ آذر ، شنبه ها
۲۰:۰۰ – ۲۱:۱۵
۱۵ جلسه
۴۵۰.۰۰۰

استاد بهزاد اسداله
استاد حسین حسین زاده
المپیاد ریاضی
از ۲ آذر ، یک شنبه ها
۲۰:۰۰ – ۲۱:۱۵
۱۵ جلسه
۴۵۰.۰۰۰

دکتر میثم کوهگرد
المپیاد فیزیک
از ۶ آذر
پنج شنبه ها
۲۰:۰۰ – ۲۱:۱۵
۱۵ جلسه
۴۵۰.۰۰۰

دکتر قربانی
المپیاد زیست شناسی
از ۴ آذر
سه شنبه ها
۱۸:۱۵ – ۱۹:۳۰
۱۵ جلسه
۴۵۰.۰۰۰

ثبت نام در سایت رسمی آکادمی تیزلاین
www.Tizline.ir

تیزلاینی_شو

دوره سالانه شامل دو ترم ۱۲ جلسه ای با ویدیو قابل دانلود و جزوه قابل پرینت است .

دوره زبان فارسی تیزهوشان به صورت سالانه ۱۵ جلسه است .

آنلاین

۰۲۱ ۴۴۱۳ ۶۹۷۵ ۰۹۳۳ ۳۸۴ ۰۲۰۲ ۵۰۰۰۲۶۹۱۳۲۴

با حضور اساتید برگزیده ی کشوری تیزهوشان و کنکور

مجری همایش کلاس و آزمون در سراسر کشور

mathmovie6 Tizline.ir

آکادمی آموزشی تیزلاین

با حضور اساتید برگزیده ی کشوری تیزهوشان و کنکور

مجری همایش کلاس و آزمون در سراسر کشور

برنامه کلاس های آکادمی تیزلاین : پایه هشتم

استاد میثم بهرامی جویا
ترم دو دوره سالانه
ریاضی تیزهوشان هشتم
از ۱ بهمن، چهارشنبه ها
۲۰:۰۰ – ۲۱:۱۵
۱۲ جلسه
۳۵۰.۰۰۰

استاد مسعود بیگدلی
ترم دو دوره سالانه
هوش و استعداد تحلیلی
از ۲ بهمن، پنجشنبه ها
۲۰:۰۰ – ۲۱:۱۵
۱۲ جلسه
۳۵۰.۰۰۰

دکتر قربانی
ترم دو دوره سالانه
علوم تیزهوشان هشتم
از ۲۸ دی، یک شنبه ها
۱۸:۱۵ – ۱۹:۳۰
۱۲ جلسه
۳۵۰.۰۰۰

استاد مهدی مهدی زاده
دوره سالانه
فارسی تیزهوشان هشتم
از ۱ آذر ، شنبه ها
۱۸:۱۵ – ۱۹:۳۰
۱۵ جلسه
۴۵۰.۰۰۰

استاد پیمان لایق
از ۲۹ دی
ساینس (علوم به لاتین)
دو شنبه ها
۲۰:۰۰ – ۲۱:۱۵
۱۲ جلسه
۳۵۰.۰۰۰

استاد سعید موساوند
زبان انگلیسی
سه شنبه ها از ۳۰ دی
۲۰:۰۰ – ۲۱:۱۵
جمعه ها از ۳ بهمن
۱۶:۳۰ – ۱۷:۴۵
۲۰:۰۰ – ۲۱:۱۵
۱۰ جلسه
۴۰۰.۰۰۰

استاد بهزاد اسداله
استاد حسین حسین زاده
المپیاد ریاضی
از ۲ آذر، یک شنبه ها
۲۰:۰۰ – ۲۱:۱۵
۱۵ جلسه
۴۵۰.۰۰۰

دکتر میثم کوهگرد
المپیاد فیزیک
از ۶ آذر
پنج شنبه ها
۲۰:۰۰ – ۲۱:۱۵
۱۵ جلسه
۴۵۰.۰۰۰

دکتر قربانی
المپیاد زیست شناسی
از ۴ آذر
سه شنبه ها
۱۸:۱۵ – ۱۹:۳۰
۱۵ جلسه
۴۵۰.۰۰۰

ثبت نام در سایت رسمی آکادمی تیزلاین
www.Tizline.ir
#تیزلاینی_شو

دوره سالانه شامل دو ترم ۱۲ جلسه ای با ویدیو قابل دانلود و جزوه قابل پرینت است .
دوره زبان فارسی تیزهوشان به صورت سالانه ۱۵ جلسه است .

آنلاین

۵۰۰۰۲۶۹۱۳۲۴ ۰۹۳۳ ۳۸۴ ۰۲۰۲ ۰۲۱ ۴۴۱۳ ۶۹۷۵

mathmovie6 Tizline.ir

آکادمی آموزشی تیزلاین

با حضور اساتید برگزیده ی کشوری تیزهوشان و کنکور

مجری همایش کلاس و آزمون در سراسر کشور

برنامه کلاس های آکادمی تیزلاین : پایه نهم

استاد فرزاد تندرو
ترم دو دوره سالانه
ریاضی تیزهوشان نهم
از ۱ بهمن، چهارشنبه ها
۲۰:۰۰ – ۲۱:۱۵
۱۲ جلسه
۳۵۰.۰۰۰

استادمسعودبیگدلی
ترم دو دوره سالانه
هوش و استعداد تحلیلی
از ۲ بهمن، پنجشنبه ها
۲۰:۰۰ – ۲۱:۱۵
۱۲ جلسه
۳۵۰.۰۰۰

دکتـــر قربانی
ترم دو دوره سالانه
علوم تیزهوشان نهم
از ۲۸ دی، یک شنبه ها
۲۰:۰۰ – ۲۱:۱۵
۱۲ جلسه
۳۵۰.۰۰۰

استاد مجید غلامی
دوره سالانه
از ۲۹ دی، دوشنبه ها
۲۰:۰۰ – ۲۱:۱۵
۱۰ جلسه
۳۰۰.۰۰۰

استاد پیمان لایق
از ۲۹ دی
ساینس (علوم به لاتین)
دوشنبه ها
۲۰:۰۰ – ۲۱:۱۵
۱۲ جلسه
۳۵۰.۰۰۰

استاد سعید موساوند
زبان انگلیسی
جمعه ها از ۳ بهمن
۱۶:۳۰ – ۱۷:۴۵
سه شنبه ها از ۳۰ دی
۲۰:۰۰ – ۲۱:۱۵
۱۰ جلسه
۴۰۰.۰۰۰

استاد مهدی مهدی زاده
دوره سالانه
فارسی تیزهوشان نهم
از ۱ آذر ، شنبه ها
۲۰:۰۰ – ۲۱:۱۵
۱۵ جلسه
۴۵۰.۰۰۰

استاد بهزاد اسداله
استاد حسین حسین زاده
المپیاد ریاضی
از ۲ آذر، یک شنبه ها
۲۰:۰۰ – ۲۱:۱۵
۱۵ جلسه
۴۵۰.۰۰۰

دکتر میثم کوهگرد
المپیاد فیزیک
از ۶ آذر
پنج شنبه ها
۲۰:۰۰ – ۲۱:۱۵
۱۵ جلسه
۴۵۰.۰۰۰

دکتـــر قربانی
المپیاد زیست شناسی
از ۴ آذر
سه شنبه ها
۱۸:۱۵ – ۱۹:۳۰
۱۵ جلسه
۴۵۰.۰۰۰

ثبت نام در سایت رسمی آکادمی تیزلاین
www.Tizline.ir
#تیزلاینی_شو

دوره سالانه شامل دو ترم ۱۲ جلسه ای با ویدیو قابل دانلود و جزوه قابل پرینت است .
دوره زبان فارسی تیزهوشان به صورت سالانه ۱۵ جلسه است .

آنلاین

۰۲۱ ۴۴۱۳ ۶۹۷۵ ۰۹۳۳ ۳۸۴ ۰۲۰۲ ۵۰۰۰۲۶۹۱۳۲۴

mathmovie6 Tizline.ir

آکادمی آموزشی تیزلاین

مجری همایش کلاس و آزمون در سراسر کشور

با حضور اساتید برگزیده ی کشوری تیزهوشان و کنکور

برنامه کلاس های آکادمی تیزلاین:

پایه دهم

دکتر قربانی
ترم دو دوره سالانه
شیمی پیشرفته دهم
از ۲۷ دی، شنبه ها
۲۰:۰۰ – ۲۱:۱۵
۱۲ جلسه
۳۵۰.۰۰۰

دکتر میثم کوهگرد
ترم دو دوره سالانه
فیزیک پیشرفته دهم
از ۲۹ دی ، دوشنبه ها
۲۰:۰۰ – ۲۱:۱۵
۱۲ جلسه
۳۵۰.۰۰۰

#تیزلاینی_شو

دکتر قربانی
ترم دو دوره سالانه
زیست شناسی پیشرفته دهم
از ۳۰ دی، سه شنبه ها
۲۰:۰۰ – ۲۱:۱۵
۱۲ جلسه
۳۵۰.۰۰۰

استاد فرزاد تندرو
ترم دو دوره سالانه
ریاضی پیشرفته دهم
از ۱ بهمن، چهار شنبه ها
۱۸:۱۵ – ۱۹:۳۰
۱۲ جلسه
۳۵۰.۰۰۰

ثبت نام در سایت رسمی آکادمی تیزلاین

www.Tizline.ir

دوره سالانه شامل دو ترم ۱۲ جلسه ای با ویدیو قابل دانلود و جزوه قابل پرینت است .

۰۲۱ ۴۴۱۳ ۶۹۷۵ ۰۹۳۳ ۳۸۴ ۰۲۰۲ ۵۰۰۰۲۶۹۱۳۲۴

mathmovie6 Tizline.ir